Adı: Soyadı:		**MATEMATİK PROBLEM DEĞERLENDİRME**		Tarih ...../...../2019

1.

Dedemin yaşı, benim yaşımın 9 katı kadardır.

Dedem, 72 yaşında olduğuna göre ben kaç yaşındayım?

Çözüm:

2.

3 katı 84 olan sayının 10 katı kaçtır?

Çözüm:

3.

12 ile 13'ü çarptım. Sonucu 4'e böldüm.

Merve yaptığı bölme işleminin sonucunu kaç bulmuştur?

Çözüm:

4.

Bir balıkçı, 70 tane balığı poşetlere beşer beşer koydu. Balıkçı bir poşet balığı 15 liradan sattı.

Balıkçı, bütün balıkları sattığına göre kaç lira kazanmıştır?

Çözüm:

5.

2 kalemin fiyatı 6 liradır.

Buna göre, 78 liraya kaç tane kalem alınır?

Çözüm:

6. Bir balıkçı, 3 tane palamutu 27 liradan satıyor.

Balıkçıdan 63 liraya kaç tane balık satın alınır?

Çözüm:

7.

Bir manav, 4 tane karpuzu 12 liradan alacak.

Manav cebindeki 99 lirayla kaç tane karpuz alabilir?

Çözüm:

8. Ahmet, 14 yaşındadır. Babasının yaşı, Ahmet'in yaşının 3 katının 4 eksiği kadardır. Babasının yaşı kaçtır?

Çözüm:

9. Her biri günde 5 sürahi süt veren 4 inek, bir haftada toplam kaç sürahi süt verir?

Çözüm:

10. Ben her gün 35 dakika yürüyorum. 21 günde toplam kaç dakika yürümüş olurum?

Çözüm:

11. Hangi sayının 6 ile çarpımı 96 eder?

12. Cebimde 12 tane 5 lira, 8 tane 10 lira, 3 tane 20 lira param var. Cebimde toplam kaç lira param vardır?

13. 8 katı 80 olan sayının 9 eksiği kaçtır?

14. Kumbaramda 45 lira vardı. 10 lira da annem verdi. Kumbaramdaki tüm parayı her gün eşit miktarda harcayarak 5 günde harcarsam bir günde ne kadar harcarım?

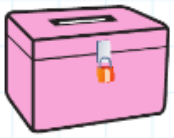

15. Merve'nin 70 lirası vardır.

Tanesi 3 lira olan kalemlerden en fazla kaç tane alabilir?

16. 6 kilogramı 54 lira olan cevizin 8 kilogramı kaç liradır?

17. $(12 + 4) \times 5 = \blacksquare$

Yukarıdaki işlemde ■ yerine hangisi gelmelidir?

A) 100 B) 90 C) 80

18. Kumbaramdaki 91 liranın $\frac{1}{7}$'sini harcadım. Geriye kaç lira param kalmıştır?

19.

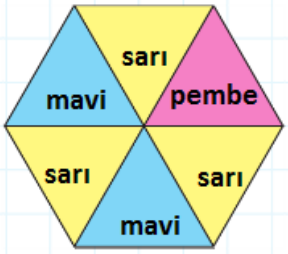

Yukarıdaki şekilde sarı renkte boyalı olan alanlar, bütün şeklin kaçta kaçını göstermektedir?

A) $\frac{3}{6}$ B) $\frac{1}{6}$ C) $\frac{2}{6}$

20.

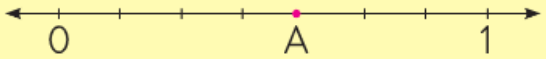

Yukarıda sayı doğrusu ile gösterilen kesirde A noktası şeklin kaçta kaçını göstermektedir?

A) $\frac{4}{6}$ B) $\frac{3}{7}$ C) $\frac{4}{7}$

*Sorular **BEŞER** puandır.Dikkatli oku.*
*Sınavda başarılar dilerim.Sınav süresi 4**0** dakikadır.*
ENES SERT
3/F SINIF ÖĞRETMENİ