Adı: Soyadı:	TÜRKÇE ÇALIŞMA KAĞIDI		Tarih ...../...../2018

Aşağıdaki ipuçlarını kullanarak kelimeleri bulalım.

- Karada ve suda yaşarım.
- Tatlı ve tuzlu sularda yaşarım.
- Ben ormanlar kralıyım.
- Benim yumurtamdan faydalanırsınız.
- Ben küçük bir kuşum.
- En uzun boylu hayvanım.
- Kutuplar benim vatanımdır.
- Sütümü çok seversiniz.

Aşağıda karışık olarak verilmiş kelimelerle cümleler oluşturup yazalım.

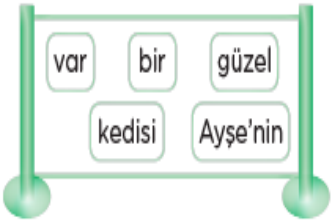

MÜTHİŞ CEVAP

Küçük çocuk bakkalcıya öfkeyle sordu (1)

- Neden bana hep yumurtaların küçüklerini veriyorsun (2)
- Kolayca taşıyabilmen için. Bu sözlerin üzerine çocuk vermesi gerekenden daha az para verip yürümeye başlar.

Bakkalcı arkasından seslenir:

- Hey küçük! Az para verdin.

Küçük çocuk:

- Kolayca sayabilmen için.

Küçük çocuk niçin sinirliymiş?

A. Bakkalcı ondan fazla para istediği için.
B. Bakkalcı ona büyük yumurtalardan vermediği için.
C. Bakkalcı ona kırık yumurta verdiği için.

.Fıkrada (1) ve (2) numaralı yerlere hangi noktalama işaretleri gelmelidir?

A. (?) (?) B. (:) (?) C. (:) (.)

☆ - Telefon ○ - Ankara
△ - Zürafa □ - Metin
◇ - Türkiye

Yukarıdakilerden hangileri özel isimdir?

A. ○ , △ , □ B. ☆ , ○ , □ C. ○ , □ , ◇

."Kırmızı ışıkta geçtiği ..... polis şoföre ceza yazdı."

Noktalı yere hangisi gelmelidir?

A. için
B. çünkü
C. acaba

Enes SERT
2/F sınıfı Çalışmaları

Aşağıdaki cümlelerden doğru olanın başındaki balonu yeşile, yanlış olanın başındaki balonu kırmızıya boyayalım.

- 29 Ekim 1923 yılında, cumhuriyet ilan edilmiştir.
- 23 Nisan'ı Atatürk, sadece Türk çocuklarına armağan etmiştir.
- Milli bayram kutlamalarında okul süslenir, gösteriler yapılır.
- 23 Nisan milli bayramlardan değildir.
- Cumhuriyet yönetiminde, yönetenleri devlet seçer.

ETKİNLİK 1 Boş bırakılan yerleri dolduralım.

Cumhuriyet Bayramı: ..... tarihinde Cumhuriyet ilan edildi.

Ulusal Egemenlik ve Çocuk Bayramı: 23 Nisan'da ..... açıldı.

Atatürk'ü Anma Gençlik ve Spor Bayramı: 19 Mayıs'ta Atatürk ..... çıktı. Kurtuluş Savaşı'nı başlattı.

Zafer Bayramı: 30 Ağustos'da ..... savaşını kazanıp düşmanları yurdumuzdan attık.

DO YOU...?

Görsellere göre aşağıdaki soruların yanıtlarını yazınız.

Sometimes | Yes, I do | No, I don't

Do you swing?
..... .

Do you skip rope?
..... .

Do you run?
..... .

Sayılardan önce ve sonra geleni İngilizce olarak yazalım.

..... four ← 5 → ..... six .....

..... ← 3 → .....

..... ← 2 → .....

..... ← 8 → .....

..... ← 7 → .....

İşlemleri yapalım sonuçları İngilizce olarak yazalım.

2 + 4 = ... six .....

7 − 2 = ...

6 ÷ 3 = ...

10 − 3 = ...

8 + 1 = ...

Hayvanlar ve hareketlerini tabloya "✓" atarak dolduralım.

	jump	swim	run	fly

Adı: Soyadı:	MATEMATİK ÇALIŞMA KAĞIDI		Tarih ...../...../2018

Aşağıdaki geometrik cisimleri nesnelerle eşleştirelim.

Silindir ○ ○

Koni ○ ○

Küre ○ ○

Küp ○ ○

Dikdörtgenler prizması ○ ○

Aşağıdaki cisimlerden ayrıtı olmayanları sarıya boyayınız.

Aşağıdaki nesnelerin benzedikleri geometrik cisimlerin adlarını altlarına yazınız ve yüzlerini boyayınız.

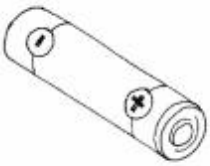

Mini Testimiz

Yukarıdaki çadır hangi geometrik şekle örnektir?

A) Üçgen Prizma
B) Küp
C) Dikdörtgenler Prizması

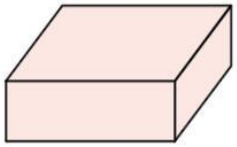

Yukarıdaki geometrik cisim aşağıdakilerden hangisine benzer?

A) Kibrit kutusu
B) Top
C) Dondurma külahı

Aşağıdaki cisimlerden hangisi küreye örnektir?

A)

B)

C)

Yukarıdaki geometrik cisimlerin arasında olmayan cisim hangisidir?

A) Küre
B) Silindir
C) Üçgen prizma

11 Aşağıdaki resimde kareleri pembeye, üçgenleri maviye, dikdörtgenleri kırmızıya, çemberleri yeşile boyayalım.



Üçgen, kare, dikdörtgen ile çember; geometrik şekillerdir. Bu şekillerin, kenar ve köşe sayılarını aşağıdaki noktalı yerlere yazalım.

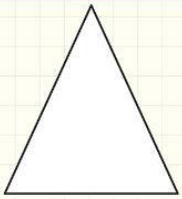 Üçgen ..... kenarlı ..... köşeli	 Kare ..... kenarlı ..... köşeli
Dikdörtgen ..... kenarlı ..... köşeli	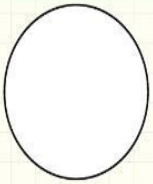 Çember Kenarsız Köşesiz

---

Aşağıda üçgenin kenar ve köşeleri oklarla gösterilmiştir. Siz de noktalı yerlere "kenar" ya da "köşe" ifadelerinden uygun olanı yazınız.

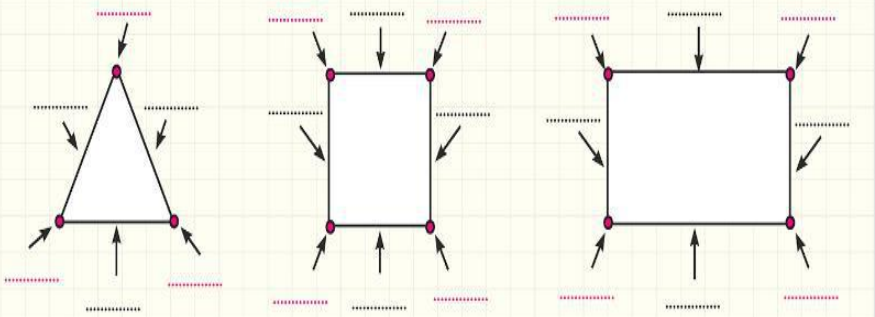

Aşağıdaki geometrik cisimlerden hangisi silindire örnektir?

A) 

B) 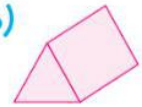

C) 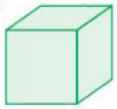

Aşağıdaki cisimlerden hangisi küpe örnektir?

A)

B)

C)

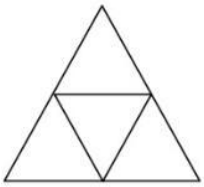

Yandaki şekilde kaç tane üçgen vardır?

A) 4 B) 5 C) 6

Aşağıdaki geometrik şekillerden hangisinin bütün kenarları eşittir?

A) Üçgen
B) Kare
C) Dikdörtgen

Hangisinin çevresini çizdiğimizde kare elde ederiz?

A)

B)

C)

Enes SERT
2/F Sınıfı Çalışmaları