Adı:	UZAKTAN EĞİTİM	Tarih
Soyadı:	DENEME -2	...../...../2020

1. Aşağıdaki 4 kap aynı büyüklüktedir ve eşit miktarda su almaktadır.

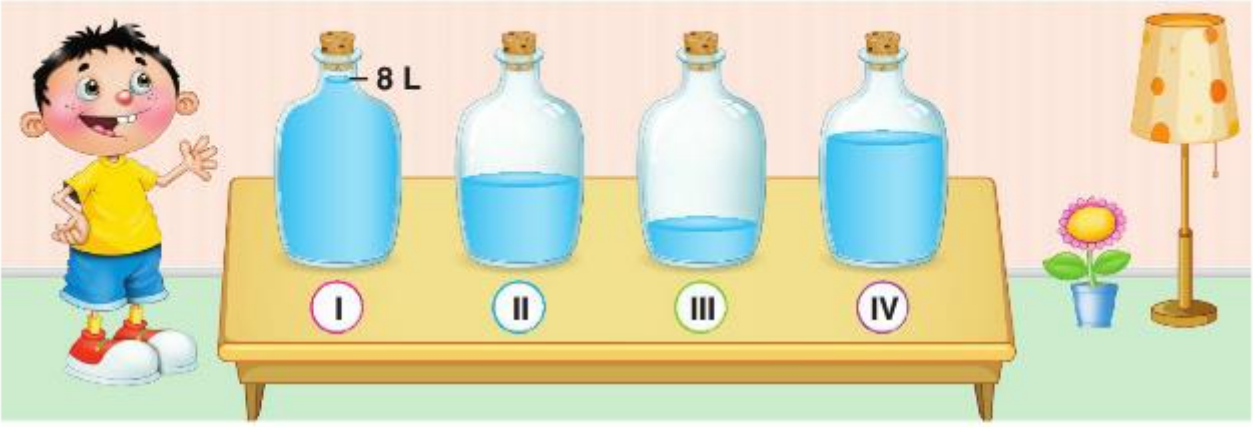

I numaralı kap 8 L su almaktadır. Fırat II, III ve IV numaralı kaplardaki su miktarlarını tahmin etti.

Buna göre Fırat'ın aşağıdaki tahminlerinden hangisi gerçek sonuca uygun <u>değildir</u>?

A) II numaralı kapta yaklaşık 4 litre su vardır.
B) III numaralı kaptaki su miktarı tahminen I numaralı kabın $\frac{1}{4}$'i kadardır.
C) IV numaralı kapta bulunan su miktarı, II numaralı kaptaki su miktarının iki katı kadardır.
D) II ve III numaralı kaplardaki su miktarlarının toplamı, yaklaşık IV numaralı kaptaki su miktarı kadardır.

2. Küçük bir akvaryum 17 litrenin yarısı, üç çeyrek litre ve 300 mL ile dolmaktadır.

Buna göre akvaryum kaç mililitre su almaktadır?

A) 9500 mL
B) 9550 mL
C) 9750 mL
D) 9950 mL

3.

Aynı büyüklükteki üç kabın her birinde farklı miktarda su bulunmaktadır. Bu miktarlar $\frac{3}{4}$ L, $\frac{1}{4}$ L ve 200 mL'dir.

Kaplardaki suyun tamamı 300 mL'lik şişelere doldurulacaktır.

Bu işlem için kaç tane şişe kullanılır?

A) 3
B) 4
C) 5
D) 6

4. **Sinem** : Benim şişemde $\frac{1}{4}$ L su vardır.

Aykut : Benim şişemdeki su miktarı, Sinem'in şişesindeki su miktarının 2 katından 75 mL eksiktir.

Yağmur: Benim şişemdeki su miktarı, Aykut'un su miktarının $\frac{3}{5}$'i kadardır.

Buna göre şişelerindeki su miktarlarına göre, çoktan aza doğru öğrenciler sıralandığında hangi sıralama doğru olur?

A) Sinem > Aykut > Yağmur
B) Aykut > Yağmur > Sinem
C) Aykut > Sinem > Yağmur
D) Yağmur > Aykut > Sinem

5.

Bir apartmanda 8 daire vardır. Bu apartmanda bir haftada 9210 litre su tüketilmiştir.

Tüketilen suyun $\frac{1}{5}$'i bahçe sulaması ve apartman temizliğinde kullanılmıştır.

Geriye kalan su miktarının apartman sakinleri tarafından eşit miktarda kullanıldığı düşünülmektedir.

Buna göre her dairenin kaç litre su tükettiği düşünülmektedir?

A) 825 B) 856 C) 915 D) 921

6.

Bir kovaya 500 mL su daha konursa $\frac{2}{4}$'si dolacaktır.

Kovanın tamamı 4000 mL su almaktadır.

Buna göre kovada kaç mL su bulunmaktadır?

A) 1200 mL
B) 1300 mL
C) 1500 mL
D) 1600 mL

7. Aşağıda 1 su bardağı, 1 çay bardağı ve 1 kahve fincanı doluyken aldığı sıvı miktarı verilmiştir.

Boş bir kaba 9 çay bardağı, 15 kahve fincanı ve 13 su bardağı su konulmuştur.

Buna göre boş kaba dökülen toplam su miktarı ne kadardır?

A) 5 litre 250 mL
B) 5 litre 500 mL
C) 5 litre 750 mL
D) 5 litre 950 mL

8.

Marketten 25 litre süt aldık. Sütün $\frac{2}{5}$'si ile yoğurt, 7 litresi ile peynir yaptık.

Geriye kalan süt kaç litredir?

A) 7 B) 8 C) 9 D) 10

KAYAÇ - MADEN İLİŞKİSİ

0D0502B1

TEST - 2

1. **Bilgi:** Ekonomik değeri olan kayaçlara "maden" denir.

Aşağıdaki tabloda, Türkiye'de bulunan bazı kayaçlar harflerle ifade edilmiş ve bu kayaçların bazı özellikleri belirtilmiştir.

Kayacın Adı	Dünya'ya Kıyasla Türkiye'de Bulunma Miktarı (Yüzde - %)	Madenin Ekonomik Değeri (kg)
A Kayacı	Yüzde (%) 1 - (çok az)	1 TL
B Kayacı	Yüzde (%) 60 - (çok)	10.000 TL
C Kayacı	Yüzde (%)10 - (az)	1.000.000 TL

Yukarıda verilen tablo ve metindeki bilgilerden yaralanılarak aşağıdaki ifadelerden hangisi hakkında kesin bir yargıya varılamaz?

A) Türkiye'de, ekonomik değeri yüksek olan kayaçlar vardır.
B) Bazı kayaçların ekonomik değeri düşük olabilir.
C) Miktarı diğerlerinden daha çok olan B kayacı, bor minerali (madeni)dir.
D) Ekonomik değeri olan bir kayaç, miktarı çok az olsa bile bu kayaç maden sınıfında yer alabilir.

2. Aşağıdaki görselde, bir maden ocağı ve bu ocaktan çıkarılan bazı madenler kullanılarak yapılan süs eşyası bir yüzük yer almaktadır.

Görselde yer alan süs eşyasının üretimi ile ilgili aşağıdaki ifadelerden hangisi yanlıştır?

A) Maden ocağından çıkarılan kayaçlar, birtakım işlemlerden geçirilerek değersiz kayaçlardan arındırılır.
B) Genellikle yer altından çıkarılan kayaçlara uygulanan kesme ve parçalama işlemleri ile farklı mineraller birbirinden ayrılır.
C) Kayaç parçaları, işlenmek üzere fabrikalara götürülerek eritme işlemlerine tabi tutulur.
D) Altın, zümrüt ve pırlanta kayaç değildir ve bu nedenle maden sınıfına dâhil edilerek bunların satışı yapılır.

3. Yandaki görselde, bir madenden çıkarılan birbirinden farklı kayaçlar gösterilmiştir.

Maden işletmecisi bu kayaç çeşitlerinden üç tanesini fabrikaya gönderirken bir tanesini göndermemekte ve atık bölümüne geri bırakmaktadır.

Buna göre, işletmecinin bu tercihi yapmasının ana nedeni aşağıdakilerden hangisi olmalıdır?

A) Geri bırakılan kayaç türünün neslinin tükenme tehdidi altında olması
B) Fabrikaya gönderilen kayaçların yapısında mineraller bulunması
C) Fabrikaya gönderilmeyen kayacın yapısında mineral olmaması
D) Yer altına geri bırakılan kayacın maden sınıfında yer almaması

4. Aşağıda, bazı kayaç örnekleri ve kullanım alanları verilmiştir.

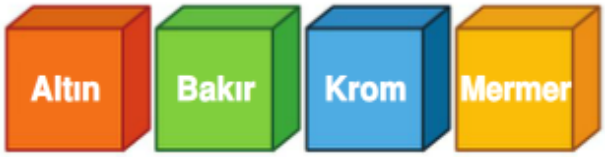

a. Kuyumculukta, resmî paralarda, madalyalarda ve süs eşyalarında kullanılır.
b. Otomobillerde, seramikte ve boya yapımında kullanılır.
c. Merdivenlerde, mutfak tezgâhında, süslemeli duvarlarda kullanılır.
d. Paslanmaz yapısı ile otomobillerde, gemilerde ve çelik yapımında kullanılır.

Buna göre, aşağıdaki eşleştirmelerden hangisi yanlıştır?

A) "Altın" ile "a"
B) "Bakır" ile "b"
C) "Krom" ile "d"
D) "Mermer" ile "c"

5. Aşağıda, "ekonomik değer-kayaç" grafiği verilmiştir.

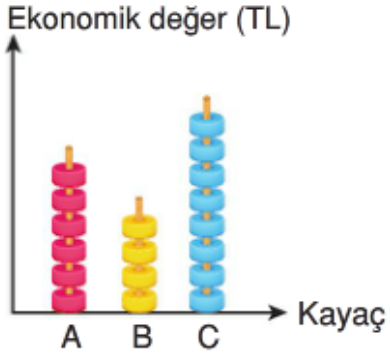

Grafiğe göre;

I. "C" kayacı maden sınıfındadır.
II. "A" kayacı "altın" olabilir.
III. "B" kayacının ekonomik değeri diğerlerinden az olduğu için maden değildir.

ifadelerinden hangileri doğrudur?

A) I ve II
B) I ve III
C) II ve III
D) I, II ve III

6. Maden ocaklarından çıkarılan kayaçlar fabrikalarda işlenerek teknolojik araçların yapımında kullanılır.

Verilen görseldeki cep telefonunun ekonomik değeri olduğuna göre aşağıdakilerden hangisi yanlıştır?

A) Pil yapısında maden kullanılmış olabilir.
B) Yapısında farklı madenler bulunabilir.
C) Yapısındaki demir, bir maden örneğidir.
D) Yapısında, ekonomik değeri olan kayaç bulunmamaktadır.

4. SINIF

TÜRKÇE

• Zıt Anlamlı Sözcükler

Adım: .....
Soyadım: .....
Sınıfım: .....
Numaram: .....

HATIRLAYALIM

- Anlamca birbirinin karşıtı (zıttı) olan sözcüklere **zıt anlamlı sözcükler** denir. Türkçemizde her sözcüğün zıt anlamlısı yoktur. Zıt anlamlı sözcükler metinlerde farklı anlamlarıyla kullanıldıklarında dili zenginleştirirler.
- Bir sözcüğün olumsuzu o sözcüğün zıt anlamlısı değildir.

  Örnek: almak - almamak (olumsuzu)
  almak - vermek (zıt anlamlısı)

TEST - 1

Arkadaşım Özgür, konuşmalarında atasözü ve deyim kullanmayı çok sever. Kullandığı atasözleri anlatımını zenginleştirir. Onun konuşmasını dinleyenler hiç susmasın isterler.

Özgür'ün hoş sohbeti onun birçok arkadaşa sahip olmasını da beraberinde getirir. Kendisine bu özelliğinin olumlu yönlerini söylediğimdeyse bana:
– "Tatlı dil yılanı deliğinden çıkarır." diyerek cevap verir.

(1, 2 ve 3. soruyu metne göre cevaplayalım.)

1. Aşağıdakilerden hangisi Özgür'ün özelliklerinden biri değildir?

A) Atasözü ve deyim kullanmayı sever.
B) Kendisi hoş sohbet biridir.
C) Birçok arkadaşı vardır.
D) Konuşmaları kaba ve serttir.

2. Okuduğunuz metnin başlığı hangisi olabilir?

A) Atasözleri
B) Tatlı Dil
C) Arkadaşlık
D) Misafirlik

3. Metinden aşağıdaki sonuçlardan hangisi çıkarılamaz?

A) Uzun süre konuşmak, dinleyici üzerinde etkili olur.
B) Konuşmalarda atasözü kullanmak anlatımı zenginleştirir.
C) Hoş sohbete sahip kişiler daha kolay arkadaş edinirler.
D) Güzel ve etkileyici konuşmak olumlu bir özelliktir.

4. "Tatlı dil yılanı deliğinden çıkarır." atasözünde altı çizili sözcüğün zıt anlamlısı aşağıdakilerden hangisidir?

A) Lezzetli
B) Bayat
C) Şekerli
D) Acı

5. Aşağıdaki atasözlerinin hangisinde zıt anlamlı iki sözcük bir arada <u>değildir</u>?

A) Ak akçe kara gün içindir.
B) Az söyle çok dinle.
C) İki cambaz bir ipte oynamaz.
D) Kâr, zararın kardeşidir.

6. Aşağıdaki cümlelerin hangisinde "bayat" sözcüğünün zıt anlamlısı kullanılmıştır?

A) Bu ekmekler taze ve mis gibidir.
B) Salı günü pazardan köy ekmeği aldık.
C) Son kullanım tarihi geçmiş ürünleri almamalıyız.
D) Eski elbiselerimi giymeyi seviyorum.

7. Aşağıdaki cümlelerin hangisinde "aç" sözcüğünün zıt anlamlısı kullanılmıştır?

A) Tok karnıma meyve yemiyorum.
B) Yemek yemediğimde annem kızıyor.
C) Acı biber ağzımı yaktı.
D) Bu sandviçi yediğimde doyacağım.

8. "Basit" sözcüğünün zıt anlamlısı hangi seçenekte verilmiştir?

A) kolay B) doğru
C) açık D) zor

9.

Boş	Taze
Batı	Doğu
Çürük	Dolu
Bayat	Sağlam

Yukarıdaki sözcükler, zıt anlamlılarıyla eşleştirildiğinde hangi şekil oluşur?

A) B) C) D)

10.

Zıt anlamlı sözcükler vazosu

Aşağıdaki çiçeklerden hangisi vazoya konulabilir?

A) İnce Zayıf
B) Tabiat Doğa
C) Kuru Yaş
D) Açık Geniş

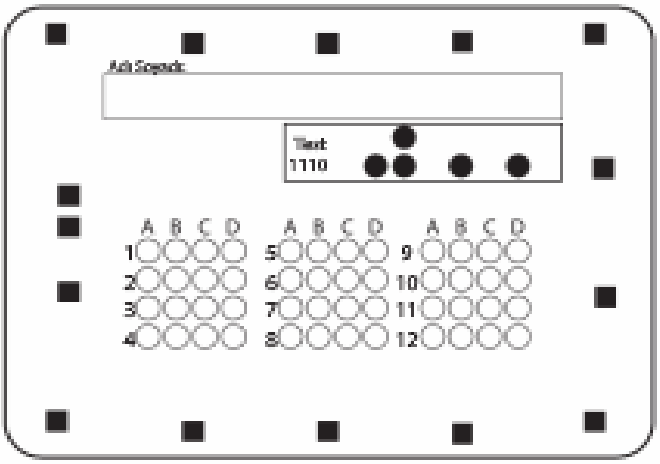

4. SINIF

SOSYAL BİLGİLER

- Benim de Kimliğim Var
- Dünden Bugüne

36BDB519

Adım: .....
Soyadım: .....
Sınıfım: .....
Numaram: .....

HATIRLAYALIM

Ülkemizde kullanılan resmî kimlik belgesi "Türkiye Cumhuriyeti Kimlik Kartı"dır.

Olayların, oluş sırasına göre sıralanmasına kronoloji denir. Yaşamamıza ilişkin belli başlı olayları kronolojik sıraya koyabiliriz.

TEST - 1

1. Resmî kimlik belgesi ile ilgili aşağıdaki ifadelerden hangisi yanlıştır?

A) Kim olduğumuzu kanıtlayan bilgileri içerir.
B) Hangi ülkenin vatandaşı olduğumuzu belirtir.
C) Herkesin belgesindeki kişisel bilgiler aynıdır.
D) Ülkemizde kullanılan resmî kimlik belgesi Türkiye Cumhuriyeti Kimlik Kartı'dır.

2. Türkiye Cumhuriyeti Kimlik Kartı'nın ön veya arka yüzünde aşağıdakilerden hangisi yer almaz?

A) Okul numarası
B) Kimlik kartının geçerlilik tarihi
C) Doğum tarihi
D) T.C. kimlik numarası

3. Türkiye Cumhuriyeti Kimlik Kartı'nın arka yüzünde aşağıdakilerden hangisi yer alır?

A) Seri numarası
B) T.C. kimlik numarası
C) Kişinin imzası
D) Çip (yonga)

4.

Ben şu zamanlar ile ilgili yaşam kronolojimi hazırlamak istiyorum:
I. Geleceğim.
II. 4. sınıfa kadar olan eğitim hayatım.
III. Kreş hayatım.
IV. Benim 3 yaşımda, kardeşimin 1 yaşında olduğu dönem.

4.sınıf öğrencisi olan Mert, belirttiği zamanların hangisi ile ilgili kronoloji hazırlayamaz?

A) I B) II C) III D) IV

5.

Ayça, kutucuklarda yer alan ifadeleri kronolojisine hatalı yerleştirdi.

Ayça, hatasını düzeltmek için numaralanmış kutucukların hangilerini değiştirmelidir?

A) I ve II
B) I ve III
C) I ve IV
D) III ve IV

6.

I

1881 yılında Selânik'te doğdu.

II

23 Nisan 1920'de TBMM'yi açtı.

III

19 Mayıs 1919'da Samsun'a ayak bastı.

IV

10 Kasım 1938'de Dolmabahçe Sarayı'nda vefat etti.

Atatürk'ün hayatına ilişkin yukarıdaki olayların kronolojik olarak sıralanması için kaç numaralı fotoğrafların yer değiştirmesi gerekir?

A) I ve II
B) II ve III
C) II ve IV
D) III ve IV

7.

I

2017 yılında 4. sınıfa gidiyorum.

II

2008 yılında doğdum.

III

2010 yılında kreşe başladım.

IV

2013 yılında ilkokula başladım.

Emre'nin yaşamına ilişkin olayların kronolojik olarak doğru sıralaması aşağıdakilerden hangisidir?

A) I - II - III - IV
B) II - III - IV - I
C) III - II - I - IV
D) IV - III - II - I

8.

- Okul kayıt işlemleri
- Hastane başvuruları
- Ülkeler arası seyahatler
- Market alışverişleri

Bunlardan kaç tanesini gerçekleştirebilmek için resmî kimlik bilgilerinin bilinmesi gerekir?
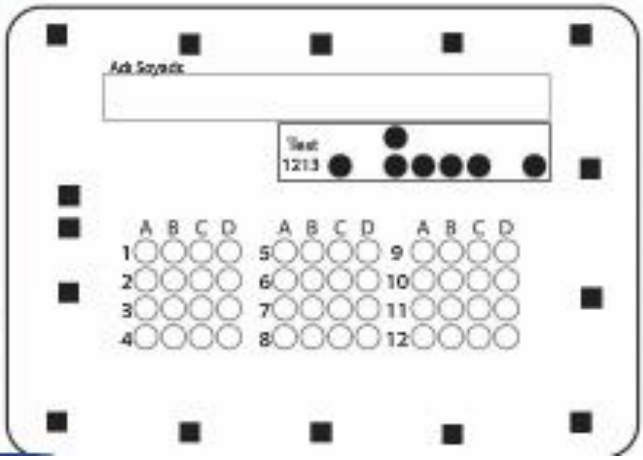
A) 1
B) 2
C) 3
D) 4