Adı: Soyadı:		MATEMATİK 4/.... Çalışma Kağıdı		Tarih ...../...../2018

---MATEMATİK SORULARI---

1----------

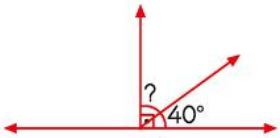

Yukarıdaki şekilde soru işareti ile verilen açı kaç derecedir?

2----------

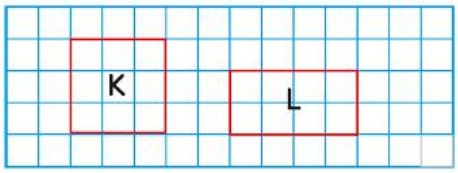

Aşağıdakilerden hangisi yanlıştır?

A. K ve L şekillerinin her bir açısının ölçüsü 90°dir.

B. K ve L şekillerinin açı ölçüleri toplamı 180°dir.

C. K şeklinin bütün kenar uzunlukları birbirine eşittir.

D. L şeklinin karşılıklı kenar uzunlukları birbirine eşittir.

3----------

(13 x 4) x 42 = (42 x 13) x K

olduğuna göre K kaçtır?

A. 19 B. 15 C. 9 D. 4

4----------

Annem maaş aldığı gün bankadan 8 tane 50 TL, 10 tane 20 TL, 5 tane 10 TL ve 15 tane 5 TL verdiklerini söyledi.

Annem, bankadan kaç TL almıştır?

5----------

(28 + 14) x 5 - 32

işleminin sonucu kaçtır?

A. 178 B. 162 C. 155 D. 142

6----------

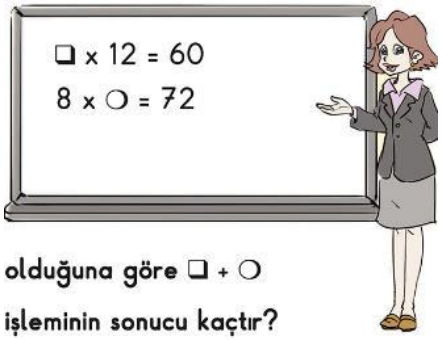

olduğuna göre ❑ + ❍ işleminin sonucu kaçtır?

A. 10 B. 12 C. 13 D. 14

7----------

[(37 x 48) - (14 x 21)]

işleminin sonucu kaçtır?

A. 294 B. 1482

C. 1776 D. 2302

8----------

Birler bölüğünde 1, binler bölüğünde 24 olan sayı 8 ile çarpılınca çarpım kaç olur?

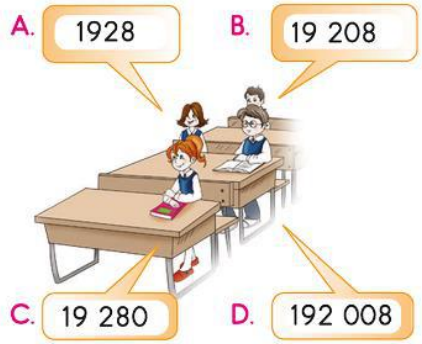

9----------

A. 1268 B. 1678

C. 2268 D. 2448

10----------

x = 12, y = 18

olduğuna göre (x + y) x (y - x) işleminin sonucu kaçtır?

A. 180 B. 172 C. 164 D. 158

11----------

120 x 5 işleminin sonucu kaçtır?

A. 600 B. 620

C. 1200 D. 1120

12----------

36 x 50 sayısını zihinden çarpmak için aşağıdakilerden hangisini yapabiliriz?

A. 36'yı 100 ile çarpar, 2'ye böleriz.

B. 36'yı 10 ile çarpar sonra da 2 ile çarparız.

C. 36'yı 4'e bölüp 100 ile çarparız.

D. 36'yı 25 ile çarpıp sonra da 2 ile çarparız.

13----------

Aşağıdaki işlemlerden hangisi yanlıştır?

A. 122 x 100 = 12 200

B. 312 x 10 = 3120

C. 425 x 10 = 425

D. 82 x 1000 = 82 000

14----------

37 sayısının 100 katının 1000 eksiği kaçtır?

A. 0,370 B. 370

C. 2700 D. 3600

15----------

(274 - 24) x 100

işleminin sonucu kaçtır?

A. 25 B. 259

C. 2500 D. 25 000

16----------

24 x 25 işlemini zihinden yapmak için aşağıdakilerden hangisini yapabiliriz?

A. 24'ü 100 ile çarpıp 2'ye böleriz.

B. 24'ü 100 ile çarpıp 4'e böleriz.

C. 24'ü 50 ile çarpıp 4'e böleriz.

D. 24'ü 100 ile çarpıp 5'e böleriz.

Matematik soruları
Başarılar dilerim
ENES SERT

Adı: Soyadı:		MATEMATİK 4/.. Çalışma kağıdı		Atasözünün Anlamını öğren *Söyleme sırrını dostuna,söyle dostuna.*

---MATEAMTİK---

17

Birler bölüğünde 10, binler bölüğünde 7 olan sayının 100 katı kaçtır?

A. 71 000 B. 701 000
C. 10 700 D. 107 000

18

Dört basamaklı en büyük sayı ile dört basamaklı en küçük sayının farkının 10 katı kaçtır?

A. 90 000 B. 89 990
C. 75 000 D. 68 900

19

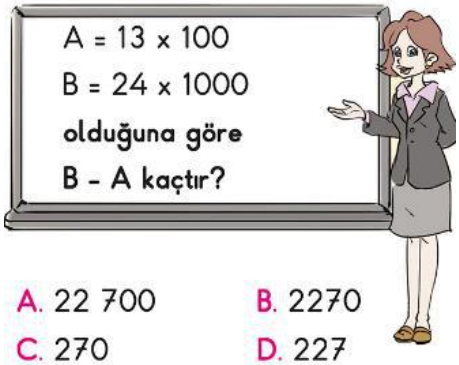
A = 13 x 100
B = 24 x 1000
olduğuna göre
B - A kaçtır?

A. 22 700 B. 2270
C. 270 D. 227

20

75 x 5 sayısını zihinden çarpmak için aşağıdaki işlemlerden hangisi yapılmalıdır?

A. 75 sayısı 100 ile çarpılıp 10'a bölünür.
B. 75 sayısı 100 ile çarpılıp 25'e bölünür.
C. 75 sayısı 10 ile çarpılıp 2'ye bölünür.
D. 75 sayısı 2 ile çarpılıp 5'e bölünür.

21

Yandaki çarpma işleminde verilmeyen çarpan kaçtır?

```
   ❑❑❑
 x  46
 2610
+1740
 20010
```

A. 326 B. 390
C. 440 D. 435

22

A : 50 = 2930 eşitliğinde A yerine hangi doğal sayı gelir?

A. 14 500 B. 145 500
C. 14 650 D. 146 500

23

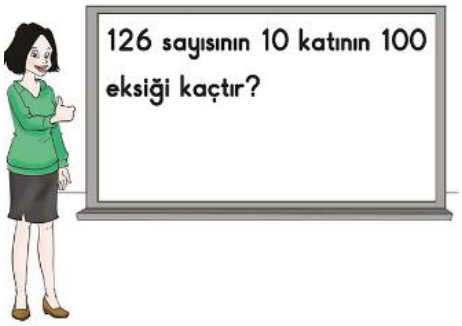
126 sayısının 10 katının 100 eksiği kaçtır?

A. 1260 B. 1160
C. 1060 D. 960

24

Bir terzi günde 19 tane gömlek dikmektedir. Her gömlek için 9 düğme ve her düğme için 5 cm iplik kullanmaktadır.
Bu terzi düğme dikmek için günde kaç santimetre iplik kullanır?

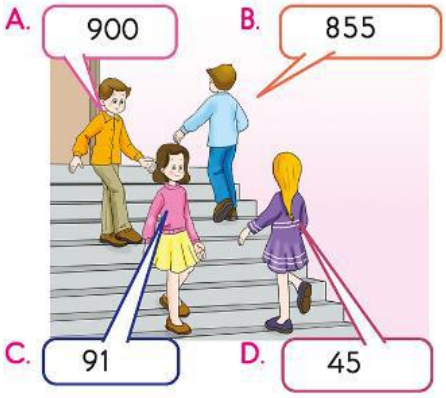

25

480 x 0 = ❐
olduğuna göre ❐ yerine hangi sayı gelmelidir?

A. 0 B. 1
C. 480 D. 4800

26

Aşağıda verilen işlemlerden hangileri doğrudur?

I. 100 : 100 = 1
II. 303 | 3 / 11
III. 1702 x 0 = 1702
IV. (19 + 0) + 1 = 20

A. I ve II B. II ve IV
C. III ve IV D. I ve IV

27

Yandaki çarpma işlemine göre A + B + C kaçtır?

```
   ABC
 x  25
 ❑❑❑❑❑
+1568
 ❑❑❑❑❑
```

A. 9 B. 11 C. 15 D. 19

28

Ürün Adı	Peşin Fiyatı (TL)	5 Taksitli Fiyatı (TL)
Bilgisayar	500	545
Buzdolabı	800	960

(6 ve 7. soruları yukarıdaki tabloya göre cevaplayınız.)

. Bilgisayarın bir taksit tutarı kaç TL'dir?

A. 105 B. 109 C. 120 D. 125

. Buzdolabının 1 taksit tutarı ne kadardır?

A. 150 B. 192 C. 200 D. 205

29

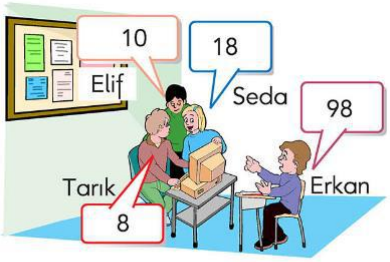

Yukarıdaki öğrencilerden hangi ikisinin söylediği sayıların çarpımı dört basamaklıdır?

A. Elif ile Erkan B. Seda ile Tarık
C. Erkan ile Seda D. Elif ile Tarık

30

12 x 10 x ▲ = 360

Selim Öğretmen'in tahtaya yazdığı işlemde "▲" yerine aşağıdaki sayılardan hangisi yazılmalıdır?

A. 3 B. 4 C. 30 D. 40