Adı: Soyadı:		Türkçe-Matematik Tema Değerlendirme		Tarih ...../...../2020

1

Panter gibi uçtum köşeye.
Köşeye giden topa uzandım ellerimle.
Kırmızı eldivenlerim mıknatıs gibi,
,Önledim rakibin öne geçmesini.

Aldım topu, vurdum tüm gücümle.
Açtım gözlerimi acı içinde.
Uyandığımda ayağım duvardaydı.
Aklım, rüyamda kurtardığım goldeydi.

Çocuk, rüyasında kendini aşağıdakilerden hangisine benzetiyor?

A)
B)
C)
D)

2

Şiirin ilk kıtasının son mısrasına göre, durum aşağıdaki skorlardan hangisi olamaz?

A)

B)

C)

D)

3

Aşağıdaki cümlelerin hangisinde hem "-de"nin hem de "-ki"nin yazımı yanlıştır?

A) Ev de alacağız, araba da!
B) Ev de ki kalemlerim kayboldu.
C) Akşamki maça sen de geliyor musun?
D) Bizdeki tabaklardan sizde de varmış.

4

Aşağıdakilerden hangisinde "-de" nin yazımı yanlıştır?

A) Ben de geleceğim.
B) Sende oynasana.
C) O da uyuyor.
D) Biz de çalışıyoruz.

5

Aşağıdaki cümlelerin hangisinde "-ki"nin ayrı yazılması gerekir?

A) Ne söylemişimki bana kızıyor?
B) Maçtaki en iyi golü o attı.
C) Derslerindeki notları okumayı unutmuyor.
D) Masadaki tabakları toplayalım.

6

Aşağıdaki cümlelerin hangisinde "-de"nin yazımında yanlışlık yapılmıştır?

A) Evde hiç ekmek kalmamış.
B) Sen de eşyalarını toplasaydın.
C) Bugünde hiç kar yağmadı.
D) Kalemim sende kalmış olabilir mi?

7

Aşağıdaki cümlelerin hangisinde "-ki"nin yazımında yanlışlık yapılmıştır?

A) Sen derslerini çalışmalısın ki başarılı olasın.
B) Geçen seneki tatilimizi özlüyorum.
C) Yeter ki sen yemeğini ye.
D) O kadar hızlı yüzüyorki balıklar bile ona yetişemiyor.

8

- Ah, canım yandı
- Hangi dersi çalışıyorsun
- Eyvah, şarjım bitti

Verilen üç cümleye sırasıyla hangi noktalama işaretleri gelmelidir?

A) ! ! !
B) ! ? !
C) . ! ?
D) . ? !

9

Aşağıdaki cümlelerin hangisinde virgül kullanılmasına gerek yoktur?

A) Bahçemizde elma armut nar ağaçları var.
B) Sevgili kardeşim yarın yanınıza geleceğim.
C) Geldik izledik ve beğendik.
D) Katıldığım yarışmada 1. oldum.

10

Aşağıdaki cümlelerin hangisinde tırnak işareti yanlış kullanılmıştır?

A) Bugün derste "Kendi Gök Kubbemiz" şiirini öğrendik.
B) Edmondo De Amicis'in "Çocuk Kalbi" kitabını okudum.
C) Öğretmenim: Çalışmak "sizi başarıya götürür." demişti.
D) Sinemada izlediğim "Pinokyo" filmini çok beğendim.

11

Aşağıdaki cümlelerin hangisinde virgülün kullanımı ile ilgili yanlışlık yapılmıştır?

A) Pazardan elma, armut ve muz aldık.
B) Ahmet gelmiş, bizi bulamamış.
C) Sevgili Ayşe, seni toplantıya bekliyorum.
D) Defterimi, kalemimi ve silgimi, aldım.

12

Aşağıdakilerden hangisi virgülün kullanıldığı yerlerden biri değildir?

A) Sıralı cümleleri birbirinden ayırmak için konur.
B) Birbiri ardınca sıralanan eş görevli sözcüklerin arasına konur.
C) Hitap için kullanılan sözcüklerden sonra konur.
D) Sıra bildiren sayılardan sonra konur.

13

I. Satıra sığmayan sözcükler bölünürken kullanılır.
II. Kelimeleri hecelerine bölerken kullanılır.
III. Matematikte çıkarma işareti olarak kullanılır.

Yukarıda verilen bilgilerden hangileri kısa çizgi (-) ile ilgilidir?

A) I
B) II ve III
C) I ve III
D) I, II ve III

1

$A < \frac{1}{17}$

İfadesine göre, A yerine aşağıdakilerden hangisi yazılamaz?

A) $\frac{1}{20}$ B) $\frac{1}{19}$ C) $\frac{1}{18}$ D) $\frac{1}{16}$

2

$\left(\frac{1}{6} + \frac{2}{6} + \frac{2}{6}\right) = \left(\frac{6}{6} - ▲\right)$

Bu eşitliğin doğru olabilmesi için ▲ yerine aşağıdaki kesirlerden hangisi yazılmalıdır?

A) $\frac{5}{6}$ B) $\frac{4}{6}$ C) $\frac{3}{6}$ D) $\frac{1}{6}$

3

Yukarıdaki sayı doğrusu 1 metre uzunluğunda olduğuna göre, bayrakla gösterilen nokta sıfırdan kaç santimetre uzaklıktadır?

A) 40 B) 30 C) 20 D) 10

4

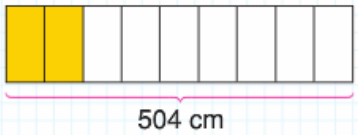

Yukarıdaki modelde 504 santimetrelik bir kumaş gösterilmiştir.

Buna göre, taralı alan kaç santimetrelik kumaşa eşittir?

A) 56 B) 65 C) 81 D) 112

5

Bir okulun 4. sınıflarında toplam 312 öğrenci vardır.

4-A sınıfındaki öğrenci sayısı, 4. sınıfların $\frac{2}{12}$'si kadar olduğuna göre, 4-A sınıfının mevcudu kaçtır?

A) 26 B) 52 C) 56 D) 60

6

Yandaki saatte başlayan bir tiyatro gösterisi 75 dakika sürmüştür.

Buna göre, gösteri bittiğinde saat kaçı gösterir?

A) 17.25 B) 17.15
C) 17.00 D) 16.45

7

Aşağıdaki üçgenlerden hangisi çeşitkenar üçgendir?

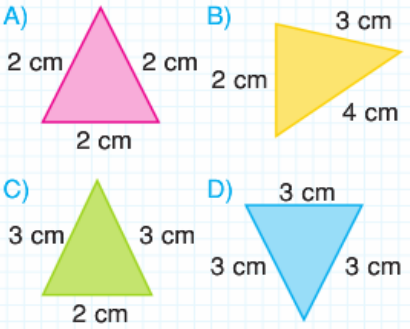

8

Açınımı verilen küp aşağıdakilerden hangisidir?

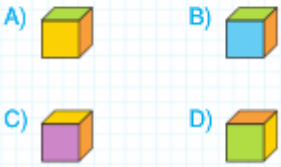

9

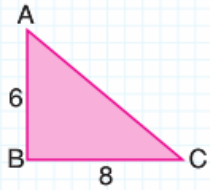

Yandaki üçgende 9 < |AC| < 11 olduğuna göre, ABC üçgeni için aşağıdakilerden hangisi söylenebilir?

A) İkizkenar üçgendir.
B) Eşkenar üçgendir.
C) Çeşitkenar üçgendir.
D) Geniş açılı üçgendir.

10

Yukarıdaki harflerden kaç tanesinin simetri doğrusu yanlış çizilmiştir?

A) 4 B) 3 C) 2 D) 1

11

1 gün, 8 saat ve 120 dakika süren bir otobüs yolculuğu toplam kaç saat sürmüştür?

A) 34 B) 32
C) 30 D) 28

12

▲ = 1 saniye ★ = 1 hafta
■ = 1 yıl ✱ = 1 gün
● = 1 ay ♦ = 1 dakika

Verilen zaman dilimlerinin kısadan uzuna doğru sıralanmış hâli aşağıdakilerden hangisidir?

A) ▲ < ♦ < ● < ■ < ★ < ✱
B) ♦ < ▲ < ■ < ● < ✱ < ★
C) ▲ < ♦ < ✱ < ★ < ● < ■
D) ■ < ● < ★ < ✱ < ♦ < ▲

13

25 Nisan 2018, çarşamba günü olduğuna göre, 12 Mayıs 2018 tarihi hangi güne denk gelir?

A) Cuma B) Cumartesi
C) Pazar D) Pazartesi

14

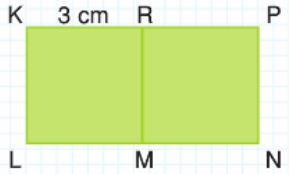

Yukarıdaki dikdörtgen birbirine eş iki kareden oluştuğuna göre, KP ve KL kenarlarının toplam uzunluğu aşağıdakilerden hangisidir?

A) 3 cm B) 6 cm
C) 9 cm D) 12 cm

15
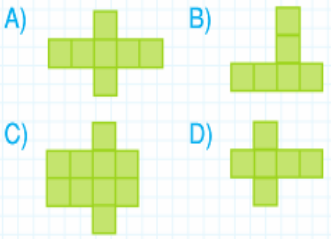
Aşağıdakilerden hangisi küpün açınımıdır?