1.



Kavanozdaki sayılardan 2 düzineden fazla 3 desteden eksik olan sayılar toplanıyor. **Buna göre bu sayıların toplamı kaçtır?**

Çözüm:

2. Dilara'nın 23 tokası vardır. Elif'in tokaları Dilara'nın tokalarından 19 fazladır. **Buna göre Dilara ve Elif'in tokaları toplamı kaçtır?**

Çözüm:

3. Emre 34 lira biriktirince 93 liralık kitabı alabilecektir. **Buna göre Emre'nin kaç lirası vardır?**

Çözüm:

4. ✦ sayısından başlanarak ileriye doğru üçer ritmik sayarken 4. adımda söylenen sayı 33'tür.

◆ sayısından başlanarak geriye doğru beşer ritmik sayarken 5. adımda söylenen sayı 15'tir.

Yukarıdaki bilgilere göre ✦ + ◆ işleminin sonucu kaçtır?

Çözüm:

5. Bir koşu yarışmasında Kerem dördüncü, Adem sondan yedinci olmuştur. **Yarışmaya 20 kişi katıldığına göre Adem ile Kerem arasında kaç kişi vardır?**

Çözüm:

sonerhoca.net

Kazak

33 TL

Şapka

..... TL

Ceket

..... TL

Eymen mağazadan kazak, şapka ve ceket almıştır. Şapkanın fiyatı kazaktan 18 lira eksik, ceketin fiyatı kazaktan 19 lira fazladır.

6 ve 7. soruları yukarıdaki bilgilere göre cevaplayalım.

6. Eymen mağazaya kaç lira ödeme yapmıştır?

Çözüm:

7. Ceket ile şapkanın fiyatları farkı kaçliradır?

Çözüm:

36



24

Yukarda muz ve elmaların adet sayıları verilmiştir. Kutulardaki muz ve elmalar her bir müşteriye aynı anda dörder dörder satılmaya başlanmıştır.

8 ve 9. soruları yukarıdaki bilgilere göre cevaplayalım.

8. 4. müşteriden sonra kalan muz ve elmaların toplamı kaçtır?

Çözüm:

9. Elmaların tamamı satıldığında kaç tane muz kalmıştır?

Çözüm:

10. Bir çıkarma işleminde eksilen sayı rakamları farklı en büyük iki basamaklı sayıdır. Çıkan sayı 34 ise kalan kaçtır?

Çözüm:

sonerhoca.net

11.

Bir yazıcının 98 sayfa çıktı alacak kadar mürekkebi kalmıştır. Bu yazıcıdan önce 33, ardından 19 sayfa çıktı alınmıştır. **Kalan mürekkeple kaç sayfa çıktı alınabilir?**

Çözüm:

12. Salim'in kütlesi 33 kilogramdır. Murat ile Salim'in kütlesi toplamı 82 kilogramdır. **Buna göre Murat'in kütlesi kaç kilogramdır?**

Çözüm:

13.



Yukarıdaki görsele göre 2 sürahi süt ile kaç kaşık süt elde edilir?

Çözüm:

14. Bir arabanın boş benzin deposu 2 kova benzin ile dolmaktadır. Bir kova 5 bidon benzin ile dolmaktadır. **Buna göre arabanın tamamı kaç bidon benzin ile dolmaktadır?**

Çözüm:

15.



Kemal yukarıdaki geometrik şekilleri çizmiştir. **Kemal'in şekilleri çizmek için kullandığı kenar sayısı 2 desteden kaç eksiktir?**

Çözüm:

sonerhoca.net